Hâkim Yayınları

4.SINIF ÇALIŞMA YAPRAKLARIMIZ

Yeni Nesil Beceri Temelli

Derse Yardımcı

Kazanım Odaklı

34 HAFTA

Bol bol test

Bol bol etkinlik

Adı-Soyadı:..... Numarası:..... Sınıfı:.....

1. Aşağıda boş bırakılan yerleri uygun sözcüklerle tamamlayalım.

- Tek başına birden fazla anlamı karşılayan, yazılışı ve okunuşu aynı anlamı farklı sözcüklere ..... sözcükler denir.
- Anlamları bakımından birbirlerinin tersi olan sözcüklere ..... anlamlı sözcükler denir.
- Yazılışları farklı anlamları aynı olan sözcüklere ..... anlamlı sözcükler denir.
- Kara sözcüğünün zıt anlamlısı ..... sözcüğüdür.
- Kalabalık sözcüğünün ..... anlamlısı tenha sözcüğüdür.
- "Menfaati olmasa bu işi yapmaz." cümlesinde altı çizili sözcüğün eş anlamlısı ..... sözcüğüdür.
- "Dünya'nın güneş alan kısımları aydınlık, güneş almayan kısımları karanlıktır." cümlesinde altı çizili sözcükler ..... anlamlıdır.
- "Kulak misafiri olmak" deyiminde altı çizili sözcüğün eş anlamlısı ..... sözcüğüdür.
- "Kitabı kışın yazmaya başladım. Yaz geldi hala bitiremedim." cümlelerinde geçen yaz sözcüğü ..... bir sözcüktür.
- "Gül, en çok kırmızı güllerin kokusunu sever." cümlesinde ..... sözcüğü eş sesli bir sözcüktür.

HAKİM YAYINCILIK

2. Aşağıdaki cümlelerde geçen altı çizili sözcüklerin eş anlamlılarını parantez içine yazalım.

- Hafta sonu çıkacağımız yolculuk için hazırlık yapıyoruz. (.....)
- Son okuduğumuz hikaye çok heyecanlıydı. (.....)
- Gökyüzünü seyrederek düşüncelere daldı. (.....)
- Babasının hediye ettiği arabayı dolabına koydu. (.....)
- Yeni alınan pabuçları için anne ve babasına teşekkür etti. (.....)
- Bu müthiş doğa manzarasını her yerde göremezsin! (.....)
- Kedim Mırnav'ı aşısını yaptırmak için baytara götürdüm. (.....)
- Elindeki imkanlarını kullanarak çevrendeki ihtiyaç sahiplerine yardımcı olabilirsin. (.....) (.....)
- Annem yemek yapma işinde çok beceriklidir. (.....)
- Yaylalara çıkabilmek için bir rehbere ihtiyacımız varmış. (.....)

3. Aşağıdaki kutucuklarda verilen kelimelerin önce zıt anlamlılarını bulalım. Zıt anlamlısını bulduğumuz kelimenin de eş anlamlısını bularak ulaştığımız sözcüğü boyayalım.

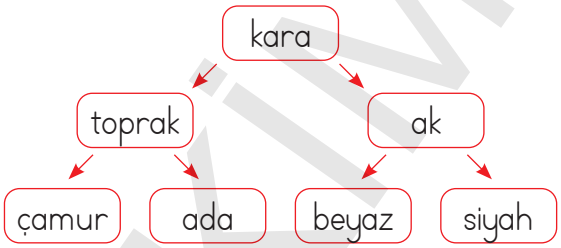

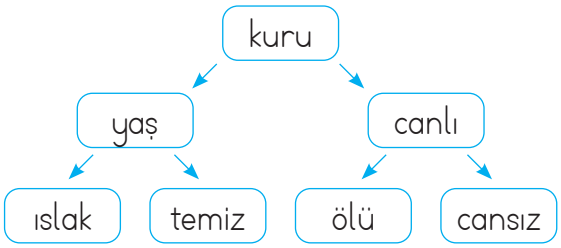

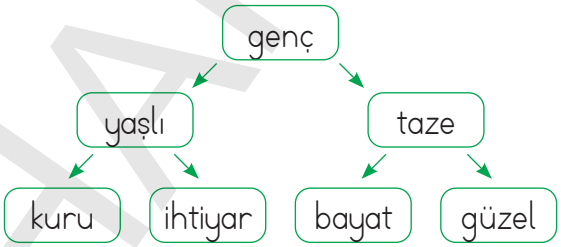

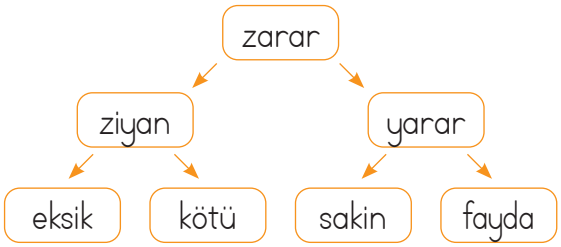

HAKİM YAYINCILIK

4. Aşağıda Ayşe Öğretmenin sınıfındaki bazı öğrencilerin ilgi alanları ve yetenekleri verilmiştir. Çocukları metinlerle eşleştirelim.

❶ Ceren	Ceren seyahat etmeyi ve yeni insanlarla tanışmayı çok seviyor. Coğrafyayla ilgili yayınları okuyor. Ceren'in en sevdiği kitabı da atlası.
❷ Kübra	Kübra çalışkan, derslerinde çok başarılı ve sosyal bir öğrenci. Ağaçları, çiçekleri ve hayvanları çok seviyor. Parkların ve deniz kenarlarının temizliğinde çalışanlara yardım ediyor.
❸ Tuğçe	Tuğçe hayalperest bir öğrenci. Masal yazıyor ve her fırsatta kitap okuyor. Okuldan sonra, okuldaki tiyatro faaliyetlerine katılıyor.
❹ Furkan	Furkan sevimli, arkadaş canlısı ve yardımseverdir. Satranç oynamaktan ve yapboz yapmaktan çok keyif alır.
❺ Can	Can çok akıllı ve hassas bir çocuktur. Hayvanları sever ve onları korur. En sevdiği ders fen bilimleridir. İleride şimdi yaptığı gibi icatlar yaparak bilim adamı olmak istiyor.
❻ Emine	Emine hayal gücü kuvvetli ve üretici bir öğrenci. Yeni ürünler tasarlamayı ve resim yapmayı çok seviyor. Derslerinde olmasa da resim alanında büyük başarılara imza atıyor.
❼ Bilal	Bilal uzun boylu ve kuvvetli bir çocuk. Aynı zamanda da hareketli ve atletik. Birçok sporda başarılı ama en sevdiği spor basketbol.

HAKİM YAYINCILIK

5. Aşağıdaki çocukların verdiği örneklerdeki noktalı yerleri varlıkların yaptığı dönme ya da dolanma hareketine göre dolduralım.

Topacı döndürmek için attığımızda, topacın yerde yaptığı hareket ..... hareketidir.

Semazenlerin, sema gösterisi sırasında yaptıkları hareket ..... hareketidir.

"Tavşan kaç, tazı tut" oyunu oynarken, birbirini kovalayan çocukların yerde çömelen çocukların etrafında yaptıkları hareket ..... hareketidir.

Ayın, Dünya etrafında yaptığı hareket ..... hareketidir.

6. Aşağıdaki cümleleri şekle göre sabah, öğle, akşam ve gece ifadelerini kullanarak tamamlayalım.

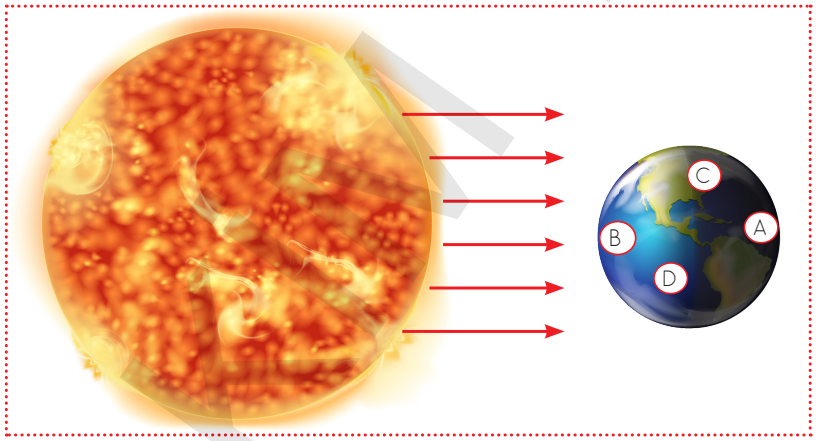

- A noktası güneş ışığı almamaktadır. Bu nedenle A noktasında, ... vakitleri yaşanmaktadır.
- B noktasına Güneş ışınları dik geldiği için, bu bölgede ..... vakitleri yaşanmaktadır.
- C noktasında güneş ışınları doğmak üzeredir. Bu bölgede ..... vakitleri yaşanmaktadır.
- D noktasında güneş ışınları batmak üzeredir. Bu bölgede ..... vakitleri yaşanmaktadır.

HAKİM YAYINCILIK

Adı-Soyadı:..... Numarası:..... Sınıfı:.....

1. Aşağıdaki sayıları en yakın onluğa yuvarlayalım.

45 →	973 →
81 →	1076 →
123 →	2234 →
157 →	3541 →
371 →	5932 →
596 →	6853 →
912 →	8799 →

2. Aşağıdaki sayıları en yakın yüzlüğe yuvarlayalım.

79 →	945 →
105 →	1034 →
154 →	2167 →
225 →	3109 →
269 →	6026 →
572 →	7923 →
804 →	9878 →

3. Aşağıdaki soruları verilen sayılara göre cevaplayalım.

- En yakın onluk olarak 260'a yuvarlanabilecek sayılar hangileridir? .....
- En yakın onluk olarak 270'e yuvarlanabilecek sayılar hangileridir? .....
- 280'e yuvarlanabilecek en küçük sayı hangisidir? .....

4. Aşağıdaki sayıların en yakın oldukları onluk ve yüzlükleri yazalım.

Onluk	← Sayı →	Yüzlük
	← 198 →	
	← 216 →	
	← 305 →	
	← 983 →	
	← 1032 →	
	← 1457 →	
	← 2983 →	
	← 5309 →	
	← 7626 →	

Hakim Yayıncılık
HAKİM YAYINCILIK

5. Aşağıdaki sayılardan bir önce ve bir sonra gelen tek sayıları yazalım.

..... < 73547 < .....

..... < 903275 < .....

..... < 219451 < .....

..... < 144367 < .....

6. Aşağıdaki sayılardan bir önce ve bir sonra gelen çift sayıları yazalım.

..... < 602344 < .....

..... < 113768 < .....

..... < 520982 < .....

..... < 980886 < .....

7. Aşağıdaki sayıları büyükten küçüğe doğru sembol kullanarak sıralayalım.

7651 - 7823 - 7859 - 7689 →

53452 - 56704 - 59329 - 56745 →

8. Aşağıdaki sayıları küçükten büyüğe doğru sembol kullanarak sıralayalım.

145879 - 173902 - 146230 - 173452 →

97438 - 97419 - 97342 - 97834 →

9. Yunus ve ailesi bu yaz tatilinde Türkiye'nin en yüksek beş dağını ve bu dağların bulunduğu şehirleri gezecekler. Gezilerini sırasıyla en yüksek dağın olduğu şehirden başlatıp, en alçak dağın olduğu şehirle bitirecekler.

Kaçkar Dağı	3932	Rize
Ağrı Dağı	5137	Ağrı
Erciyes Dağı	3916	Kayseri
Süphan Dağı	4058	Bitlis
Cilo Dağı	4134	Hakkari

Buna göre Yunus ve ailesinin gezi güzergahı hangisinde doğru şekilde verilmiştir?

A) Bitlis, Hakkari, Ağrı, kayseri, Rize

B) Ağrı, Rize, Bitlis, Kayseri, Hakkari

C) Ağrı, Hakkari, Bitlis, Rize, Kayseri

D) Hakkari, Bitlis, Rize, Ağrı, Kayseri

HAKİM YAYINCILIK

10. Aşağıdaki tabloda Türkiye'deki bazı dağların yükseklikleri verilmiştir.

Türkiye'deki Bazı Dağların Yükseklikleri	
Dağ	Yükseklik (m)
Ağrı Dağı	5137
Erciyes Dağı	3916
Süphan Dağı	4049
Cilo Dağı	4170
Kaçkar Dağı	3932

Dağların yükseklikleri ile ilgili aşağıdaki bilgilerden hangisi doğrudur?

A) Dağların yükseklikleri uzundan kısaya doğru sıralandığında Süphan Dağı 3. sırada olur.

B) En yüksek dağ Cilo Dağı'dır.

C) En alçak dağ Kaçkar Dağı'dır.

D) Süphan Dağı, Ağrı Dağı'ndan yüksektir.

11. Öğretmeni Emine'nin defterine yaptığı sıralamalardan doğru olanların başına "D", yanlış olanların başına "Y" koymuştur.

	47312 > 47295 > 46975 > 46992
	16575 < 16604 < 16712 < 16744
	56233 > 55728 > 55619 > 55406

Buna göre aşağıdakilerden hangisi doğrudur?

A) D, D, Y

B) Y, D, Y

C) Y, D, D

C) D, Y, D

HAKİM YAYINCILIK

12. Sude aşağıdaki tahtada yazılı sözcüklerden içinde dört harfli hece geçenleri seçip defterine yazmıştır.

1. makarna	5. element	9. bilgisayar	13. terbiye
2. derslik	6. perşembe	10. harfli	14. dörtlük
3. konferans	7. matematik	11. nefes	15. çerçeve
4. barış	8. kahvaltı	12. güneş	16. kurtçuk

Sude'nin defterine yazdığı sözcük sayısı kaçtır?

A) 6 B) 9 C) 11

13.

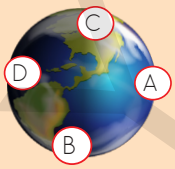

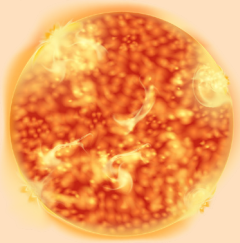

Hayal'in yaşadığı yerde güneş tam tepededir ve öğle saatleri yaşanmaktadır.
Tuba'nın yaşadığı yerde akşam olmak üzeredir.
Salih'in yaşadığı yerden sabah saatleridir ve Salih kahvaltı yapmaktadır.
Altay'ın yaşadığı yerde vakit gece yarısıdır ve Altay uyumaktadır.

Yukarıdaki şekle göre çocukların yaşadığı yerlerle ilgili hangisi doğrudur?

A) Hayal, C noktasında yaşamaktadır.
B) Tuba, B noktasında yaşamaktadır.
C) Salih, A noktasında yaşamaktadır.
D) Altay, D noktasında yaşamaktadır.

HAKİM YAYINCILIK

Ad:.....
Soyad:.....
Numara:..... Sınıf:.....

1 Aşağıdaki cümlelerin hangisinde "hayat" sözcüğünün eş anlamlısı kullanılmıştır?

A) Ömrümün çoğunu Antalya'da geçirdim.

B) Yıllar su gibi akıp geçiyordu.

C) Derslerinde başarılı olmak için çok çalışıyordu.

C) Fotoğraflara bakarken çocukluğu geldi aklına.

2

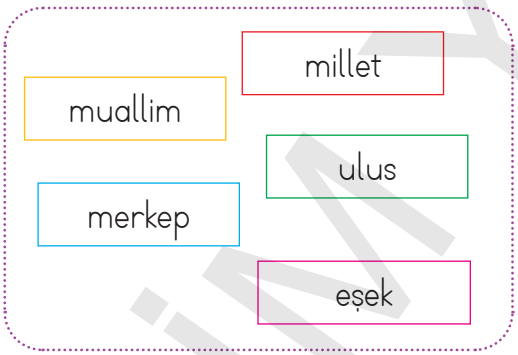

Kutucuklardaki sözcükler eş anlamlılarıyla eşleştirildiğinde hangisi dışarıda kalır?

A) Millet

B) Muallim

C) Merkep

D) Ulus

3 ■ yanlış – doğru
● uzak – yakın
★ uzun – ince
▲ katı – sıvı

Yukarıda verilen sözcüklerden hangileri zıt anlamlı <u>değildir</u>?

A) ▲ B) ★ C) ● D) ■

4 Aşağıdaki cümlelerden hangisinde karşıt anlamlı sözcükler bir arada kullanılmıştır?

A) Okulda uslu durduğun için sana kızmamışlar.

B) O çocuk okulda yaramaz, evde usluymuş.

C) Evde akıllı uslu otur, olur mu?

D) Çocuk evde sürekli yaramazlık yapıyormuş.

5 "Karanlık – aydınlık" sözcükleri arasındaki anlam ilişkisi barış sözcüğüyle aşağıdakilerden hangisi arasında vardır?

A) Savaş B) Sulh

C) Mücadele D) Direniş

Hakim Yayıncılık
HAKİM YAYINCILIK

6 Zıt anlamlı sözcükler ile ilgili bir bilgi yarışmasına katılan Ahmet her doğru eşleştirdiği zıt anlamlı sözcük için 5 puan almaktadır.

1. Kalabalık-Tenha
2. Tatlı-Acı
3. Taze-Bayat
4. İhtiyar-Yaşlı

Ahmet sözcükleri yukarıdaki gibi zıt anlamlarıyla eşleştirmiştir. Buna göre Ahmet kaç puan almıştır?

A) 5 B) 10 C) 15 D) 20

7

Merhaba ben Fatma. Piyano çalmayı çok seviyorum. Haftada iki kere piyano öğretmenimle birlikte çalışma yapıyorum. İyi bir piyanist olduğumda okulumda konser vermek istiyorum. İleride doktor olsam bile piyano çalmayı bırakmayı düşünmüyorum.

Fatma'nın kendisiyle ilgili verdiği bilgilerden faydalanarak aşağıdakilerden hangisini <u>söyleyemeyiz</u>?

A) Fatma piyano çalmaktadır.

B) Fatma'nın en sevdiği ders müzik dersidir.

C) Fatma ileride konser vermek istemektedir.

D) Fatma doktor olduğunda da piyano çalmayı düşünmektedir.

Hakim Yayıncılık

8 Aşağıdakilerden hangisi bir ilgi alanı <u>değildir</u>?

A)

B)

C)

D)

9 Banu 4. sınıfa gitmektedir. Orta boylu ve zayıftır. Zeki, sevecen ve duygusal bir çocuktur. Yapı bloklarıyla oynamayı çok sevmektedir.

Yukarıda verilen bilgilerde Banu'nun hangi özelliğinden <u>bahsedilmemektedir</u>?

A) İlgi alanı

B) Duygusal özellikleri

C) Fiziksel özellikleri

D) Yetenekleri

10

Berna yandaki yüz ifadesini aşağıdaki durumlardan hangisine göstermiş olabilir?

A) Yolda yaralanmış bir kedi gördüğünde

B) Okul çıkışında onu almaya gelen dayısını gördüğünde

C) Arkadaşıyla küstüğünde

D) Yolda yürürken düştüğünde

HAKİM YAYINCILIK

11 Aşağıdaki sayılardan hangisi en yakın olduğu onlukla yanlış eşleştirilmiştir?

A) 78 → 80

B) 423 → 420

C) 7265 → 7260

D) 3988 → 3990

12

Ebru

Yaptığım alışverişte yaklaşık 1250 TL harcadım.

Yukarıdaki ifadeye göre, Ebru kaç TL harcamış olamaz?

A) 1245 B) 1247

C) 1254 D) 1258

13

34698 34713

34654 34744

Yukarıda verilen sayıların yuvarlanabileceği en yakın yüzlük aşağıdakilerden hangisidir?

A) 34 500 B) 34 600

C) 34 700 D) 34 800

14

Dağlar	Yükseklikleri
Cilo Dağı	4170 metre
Kaçkar Dağı	3932 metre
Ağrı Dağı	5137 metre
Süphan Dağı	4049 metre
Erciyes Dağı	3916 metre

Yukarıdaki tabloda Türkiye'deki en yüksek 5 dağ verilmiştir. **Dağların küçükten büyüğe doğru yükseklik sıralaması hangisinde doğru verilmiştir?**

A) 3916 < 3932 < 4049 < 4170 < 5137

B) 3932 < 3916 < 5137 < 4170 < 4049

C) 3916 < 4049 < 3932 < 5137 < 4170

D) 5137 > 4170 > 4049 > 3932 > 3916

15 Seçeneklerden hangisinde verilen bütün sayıların yuvarlanabileceği en yakın yüzlük 5200'dür?

A) 5152, 5199, 5238

B) 5144, 5265, 5277

C) 5019, 5149, 5251

D) 5134, 5142, 5264

Hakim Yayıncılık
HAKİM YAYINCILIK

16 6453 - 6765 - 6432 - 6787

Yukarıdaki 4 basamaklı sayılar küçükten büyüğe sıralandığında 3. sırada hangisi olur?

A) 6787
B) 6432
C) 6765
D) 6453

17 Dünya'nın tamamının aynı anda aydınlık olmamasının nedeni aşağıdakilerden hangisidir?

A) Dünya'nın Güneş'in etrafında dolanması
B) Dünya'nın şeklinin küreye benzemesi
C) Dünya'nın dönme hareketini bir günde tamamlaması
D) Dünya'nın Güneş'e uzak olması

18

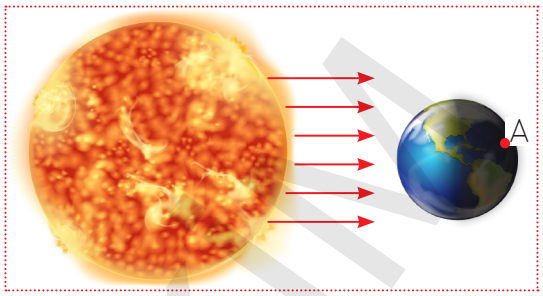

Yukarıdaki şekle göre A noktası için aşağıdakilerden hangisi doğrudur?

A) Öğle vaktidir.
B) Sabah olmak üzeredir.
C) Güneş batmak üzeredir.
D) Gece vaktidir.

19

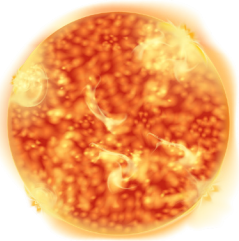

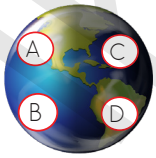

Yukarıdaki şekle göre hangi harfle gösterilen yerlerde gündüzdür?

A) A ve B
B) A ve C
C) B ve D
D) C ve D

20

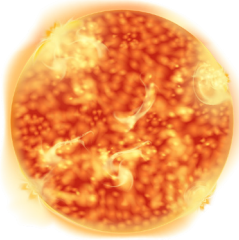

Yukarıdaki şekilde gösterilen A noktası için aşağıda verilen bilgilerden hangisi doğrudur?

A) Gece yaşanmaktadır.
B) Öğle vaktidir.
C) Akşam olmak üzeredir.
D) Güneş doğmak üzeredir.

Hakim Yayıncılık
HAKİM YAYINCILIK